	INSTITUCIÓN EDUCATIVA HÉCTOR ABAD GÓMEZ		
	GRADOS SEXTOS 6.5 a 6.9	**Código**	
Nombre del Documento: PLAN MEJORAMIENTO Ciencias naturales período 3 2017		**Versión 01**	Página 1 de 1

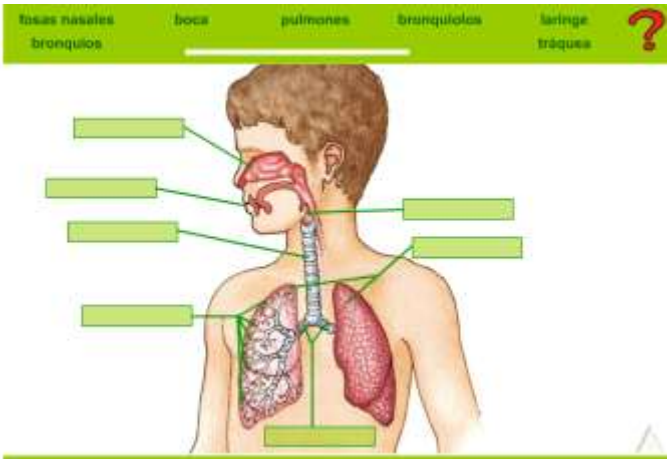

1. A la anterior imagen del sistema respiratorio colóquele los nombres respectivos.

2. En la imagen no se observan los alveolos pulmonares, estos se encuentran en

a. bronquios b. tráquea c. pulmones

3. En la imagen no se observa la membrana pleura, ésta dónde se encuentra y para qué sirve

4. En el proceso respiratorio cuál es el gas que entra y el que sale?

5. En el proceso respiratorio dónde se da el intercambio de gases

a. pulmones b. bronquiolos c. alveolos pulmonares

6. Al respirar el oxígeno inicialmente llega a los pulmones. Cómo hace para llegar a todas las células del cuerpo?

7. Cuál es el músculo que ayuda a los movimientos respiratorios en el cuerpo humano?

8. Cuál es la principal función de los riñones?

9. Una de las funciones del riñón es la reabsorción, explíquela

Observe la imagen del sistema excretor

10. Señale la vejiga, los riñones, los uréteres y la uretra

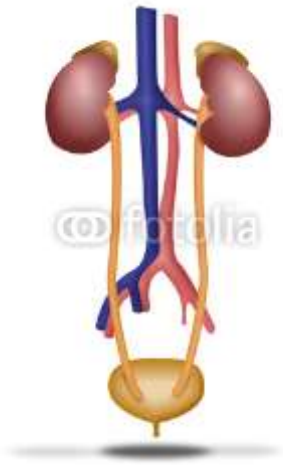

11. Qué otros órganos de nuestro cuerpo expulsan sustancias tòxicas?

12. La siguiente imagen representa en una planta

a. fotosíntesis transpiración c. respiración

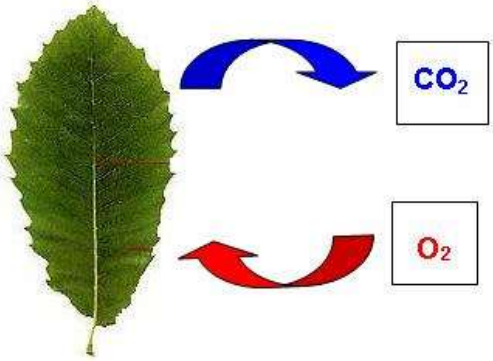

13. Los insectos respiran por

a. pulmones b. tráqueas c. branquias

14. Un perro respira a través de

a. pulmones b. tráqueas c. branquias

EL TALLER SE DEBE SUSTENTAR